1ねんせいのさんすう　　がつ　　にち

12. 3つのかずの たしざん	なまえ	

1.○のなかに きごうをかきましょう。

①. みんなで なんわに なりましたか



3わいます

⇒



2わきました

⇒



また3わきました

しき

3 ＋ 2 ＋ 3 ＝ 8

こたえ

8わ

②. てもとにのこるのは なんこですか



9こあります

⇒



2こたべました

⇒



4こあげました

しき

9 － 2 － 4 ＝ 3

こたえ

3こ

© 印刷工房おむねっと

２．けいさんをしましょう

１）　５＋６＋３＝　１４

２）　３＋７＋１＝　１１

３）　９＋１＋４＝　１４

４）　６＋５＋２＝　１３

５）１５－３－２＝　１０

６）１６－２－６＝　８

７）１４－７－３＝　４

８）１３－５－５＝　３

©印刷工房おむねっと