７．のこりはいくつ	なまえ	

１．のこりはいくつでしょう。

①



なしが６こ　　たべたのが３こ

のこりは

３ こ

②



うさぎが７わ　　にげたのが３わ

のこりは

４ わ

③

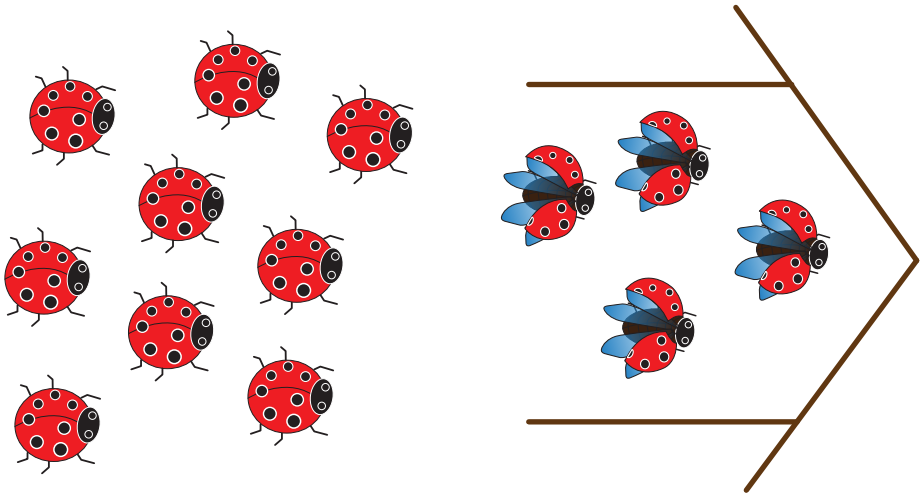

てんとう虫９ひき　とんでいったのは４ひき

※うさぎはひきとは、かぞえません。
　１わ２わとかぞえます。

のこりは

５ ひき

© 印刷工房おむねっと