２年生のさんすう　　月　　日

７．たし算とひき算の図	名まえ	

１．赤いリンゴと青いリンゴが合わせて１５こあります。赤いリンゴは８こです。青いリンゴはいくつありますか？

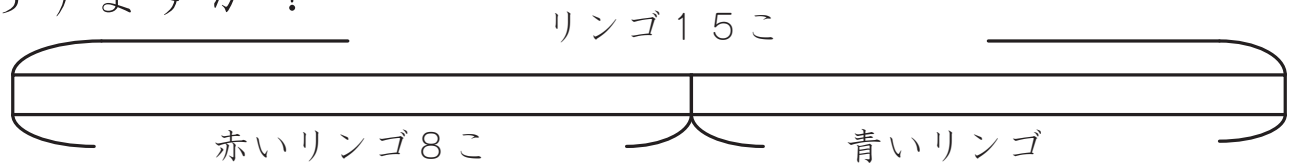

答え　7　こ

２．犬が９ひきネコが５ひきいます。
ちがいは何ひきですか？

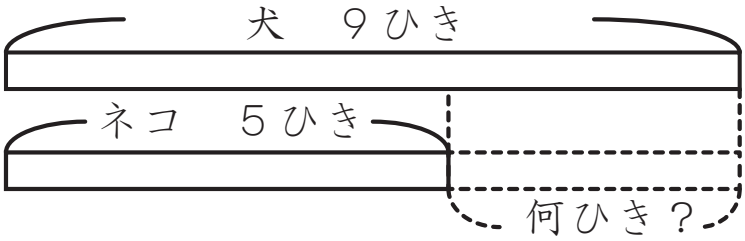

答え　4　ひき

３．２年生は女子が８人、男子が１０人います。
２年生はぜんいんで何人ですか？

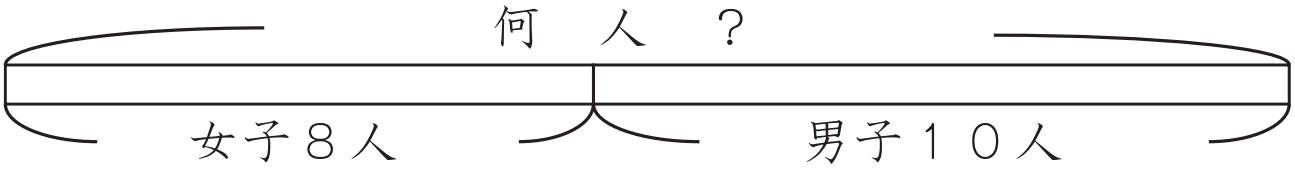

答え　１８　人

４．２年生は男子が１０人、女子が８人います。
ちがいは何人ですか？

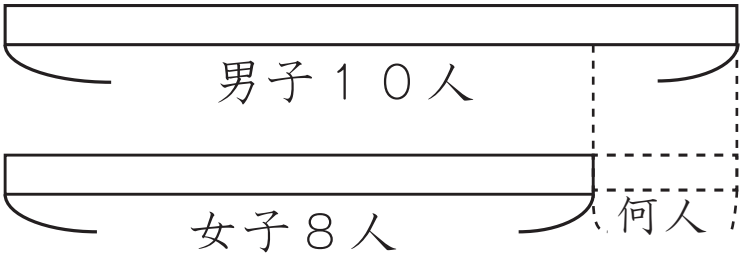

答え　2　人

© 印刷工房おむねっと