４．角度について	名前	

①次の㋐㋑㋒の角度を分度器を使ってはかりましょう。

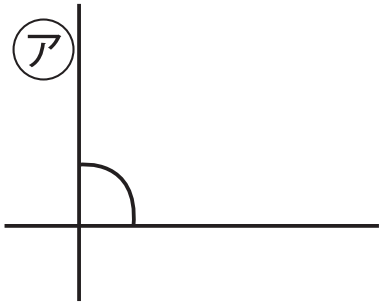

（　　）

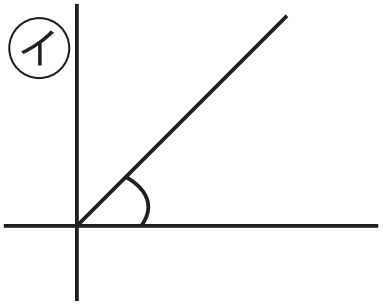

（　　）

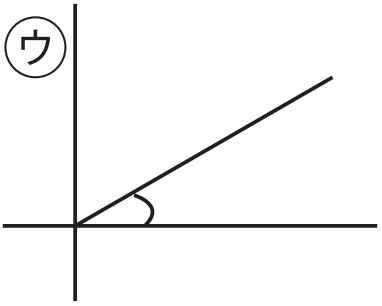

（　　）

②次の㋓㋔㋕の角度を分度器を使ってはかりましょう。

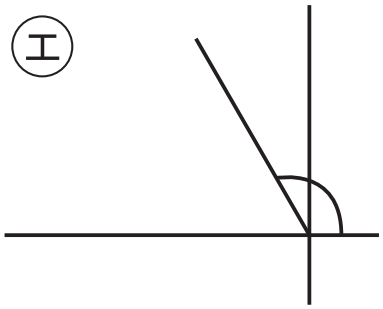

（　　）

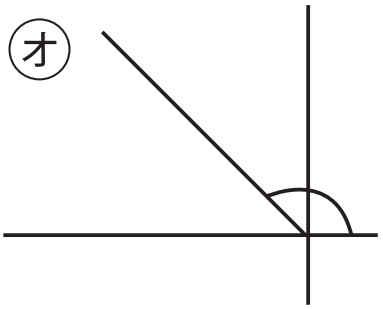

（　　）

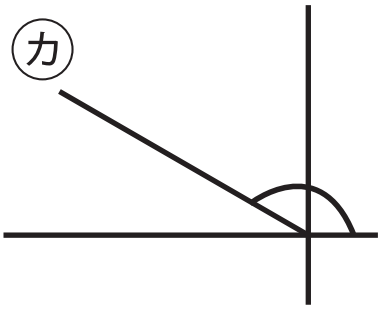

（　　）

③三角定規を組み合わせてできる角度㋖㋗㋘は何度なりますか？

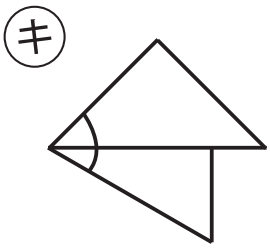

（　　）

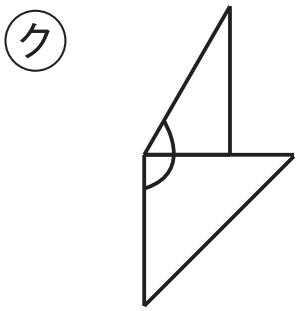

（　　）

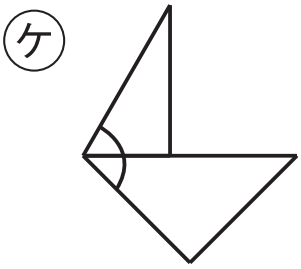

（　　）

© 印刷工房おむねっと