７．垂直、平行と四角形	名前	

１．下の図を見て答えましょう。

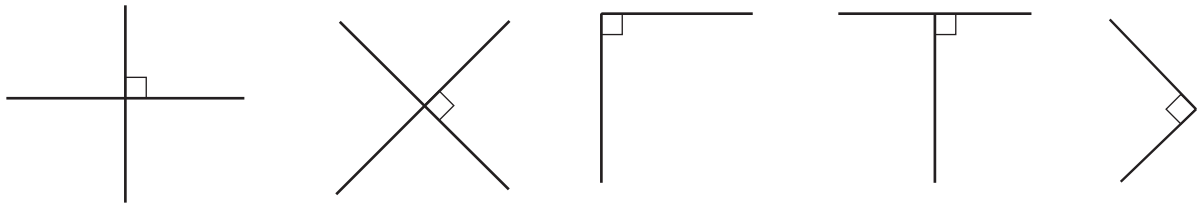

２本の直線が交わってできる角が直角のとき、この２本の直線は［垂直］であるといいます。

２．下の図を見て答えましょう。

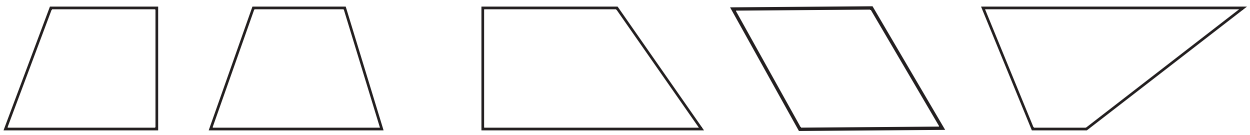

向かい合った１組の辺が平行な四角形を［台形］といいます。

３．下の図を見て答えましょう。

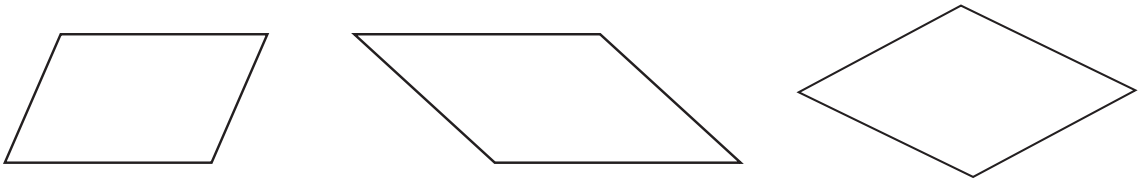

向かい合った２組の辺が平行な四角形を［平行四辺形］といいます。

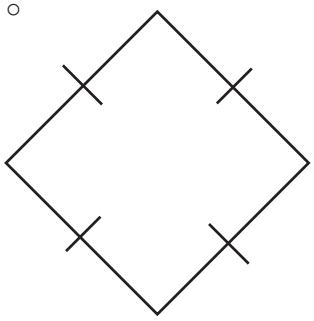

左の図のような，辺の長さがすべて等しい四角形を［ひし形］といいます。

３．四角形ＡＢＣＤは長方形です。［　　］の中を答えましょう。

①辺 AB と［垂直］な辺は、辺 BC と AD です。
②辺 BC と［平行］な辺は、辺 AD です。
③辺 CD と垂直な辺は
辺［AD］と、辺［BC］です。

© 印刷工房おむねっと