5. 合同と 三角形、四角形	名前	

(1)

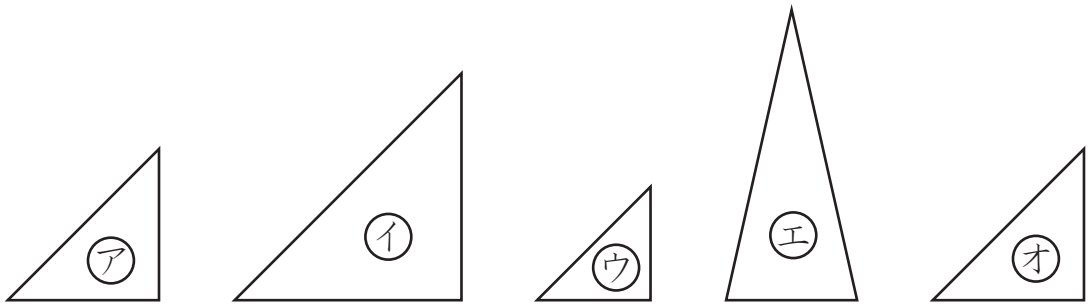

上の図の㋐と合同な三角形はどれですか　答　㋔

(2) 左の図と合同な図形を描きましょう

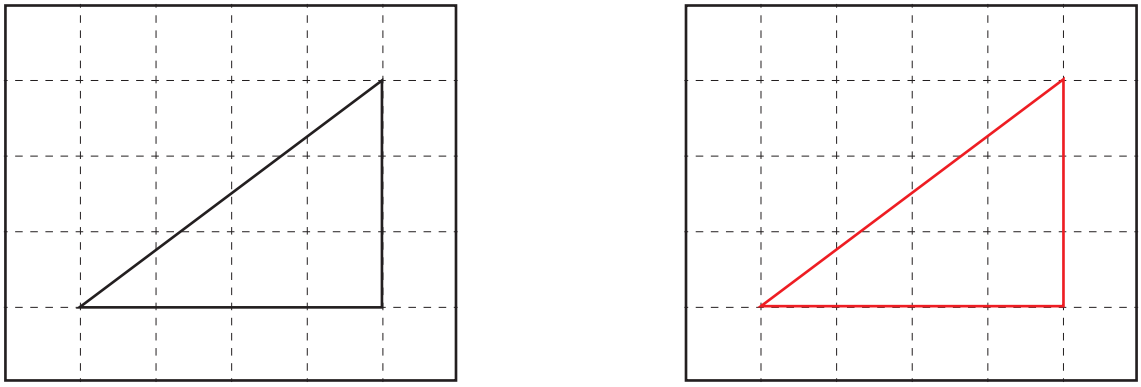

(3) 次の2つの図形は合同です。当てはまる長さや角度を書きましょう

ア　60°　　イ　90°　　ウ　30°　　エ　2 cm　　オ　4 cm

(4) 三角形の内角の和は180°です。四角形の内角の和はいくつですか

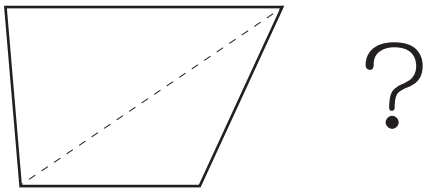

?

答　360°

© 印刷工房おむねっと