6年生の算数　　月　　日

3．対称な図形	名前	

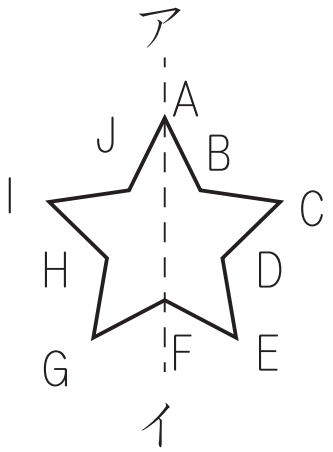

（1）　左の図は線対称な図形で、線分アイは対称の軸です。次の問に答えましょう

①　点Bに対応する点はどれですか

答え　J

②　辺IJに対応する辺はどれですか

答え　辺 CB

（2）　次の図形のうちで点対称なものを選びましょう

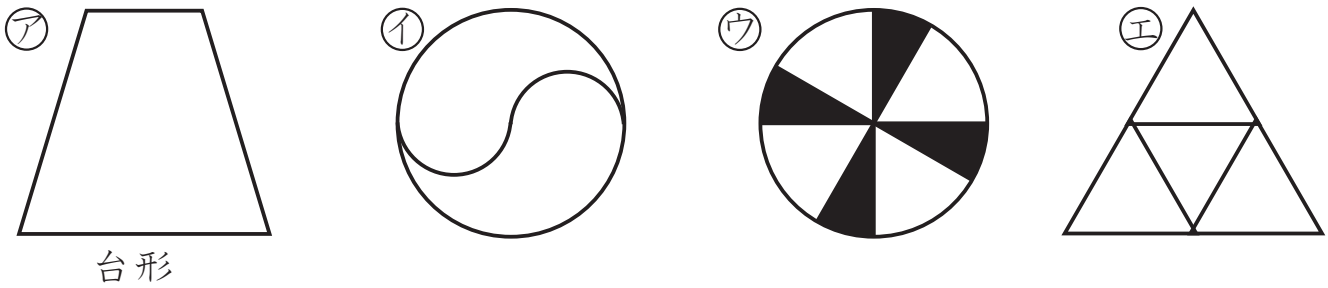

答え　㋑　㋒

（3）　次の図は点Oを中心とした点対称な図形です次の問に答えましょう

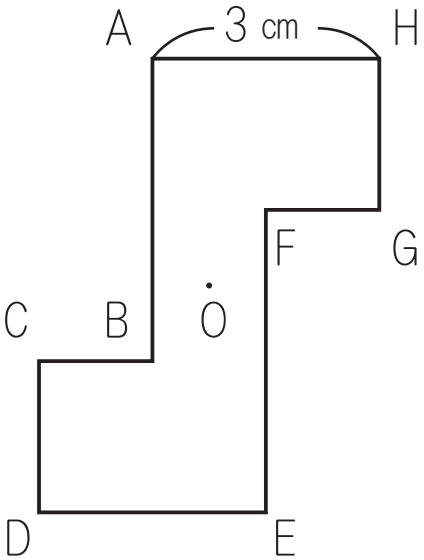

①角Aに対応する点はどれですか

答え　角E

②辺DEの長さは何cmですか

答え　3cm

③辺EFと同じ長さの辺はどれですか

答え　辺 AB

© 印刷工房おむねっと